EVALUAREA COMPETENŢELOR FUNDAMENTALE
LA FINALUL CLASEI a II-a
2017

Test 2

MATEMATICĂ

Judeţul / sectorul.....

Localitatea.....

Şcoala.....

Numele şi prenumele elevei / elevului.....

.....

Clasa a II-a.....

Băiat ☐ **Fată** ☐

A II. osztály tanulói szeretik a természetet. A tanító nénivel erdei sétára indultak, hogy felfedezzék a rovarok titkait. Megcsodálták a sokszínű virágokat, megfigyelték a rovarokat. A nap végén lejegyezték a megfigyelt rovarok számát. A leírt számok az alábbi táblázatban találhatók. A tanító néni néhány kérdést tartalmazó kártyát készített elő a gyerekeknek.

			
79 katicabogár	**149 pillangó**	**300 szitakötő**	**45 méh**

1. Hány **katicabogarat** és **szitakötőt** láttatok az erdőben összesen? – írja az egyik kártyán.
Karikázd be a helyes válasz betűjelét!

a) 124
b) 228
c) 345
d) 379

Nu se completează de către elev
COD

1.	

2. Sándor összehasonlította a **pillangók** és a **szitakötők** számát.
Írd be a házikóba a megfelelő <, =, > jelet úgy, hogy a kijelentés igaz legyen!

149 ☐ **300**

Nu se completează de către elev
COD

2.	

3. Mennyivel több a **pillangók** száma a **katicabogarak** számánál? - írja egy másik kártyán.

Karikázd be a helyes válasz betűjelét!

a) 60

b) 70

c) 80

d) 170

Nu se completează de către elev

COD

3.

4. Anna megfigyelte, hogy néhány katicabogár a képen látható módon helyezkedett el. Hány katicabogár helyezkedett el összesen a virágokon?

Találd meg az eredményt ismételt összeadással!

Írd az alábbi helyre a feladat megoldását!

Nu se completează de către elev

COD

4.

5. Az erdőben két pillangófaj él. Elza tudja, hogy az egyik fajta 16 napot, míg a másik 8 napot él.

Hányszor kevesebbet él a második fajta pillangó?

Találd meg az eredményt ismételt kivonással!

Írd az alábbi helyre a feladat megoldását!

Nu se completează de către elev

COD

5.

6. Helén 149 pillangót számolt meg az erdőben. Jánosnak meg kell mondania ennek a számnak a szomszédait.

Karikázd be a helyes válasz betűjelét!

149

a) 147 és 149

b) 148 és 151

c) 148 és 150

d) 150 és 151

Nu se completează de către elev

COD

6.

7. Mária 4 szitakötőt számolt, Andrea pedig 6-szor többet.
Mátyásnak ki kell számolnia, hány szitakötőt számolt meg Andrea.
Írd az alábbi helyre a feladat megoldását!

Nu se completează de către elev
COD

7.	

8. A gyerekek kártyákra ragasztották a látott rovarok képét.
Milyen síkidomra hasonlít a pillangó kártyája?
Karikázd be a helyes válasz betűjelét!






a) kör
b) téglalap
c) négyzet
d) háromszög

Nu se completează de către elev
COD

8.	

9. Krisztinának ki kell számítania, mennyivel több a pillangók száma a méhek számánál. A következő műveletet írta le: **149 – 45 = 104**.

Végezd el a próbáját ellentétes művelettel!

Írd az alábbi helyre a feladat megoldását!

Nu se completează de către elev

COD

9.	

10. András síkidomokból képet készített.

Hány háromszöget és hány kört használt a nap elkészítéséhez?

Karikázd be a helyes válasz betűjelét!



a) 5 háromszög és 2 kör;
b) 6 háromszög és 1 kör;
c) 7 háromszög és 1 kör;
d) 8 háromszög és 2 kör.

Nu se completează de către elev

COD

10.	

11. Róbertnek kettesével kellett megszámolnia az erdőben látott pillangókat.
Segíts neki folytatni a számlálást!
Írd az üres házikókba a hiányzó számokat!

36		40			46

Nu se completează de către elev
COD

11.	

12. A nap végén a fiúk hármasával álltak 5 sorba. Elegen vannak-e ahhoz, hogy mind a 15 lánynak párja legyen a táncban?
Indokold meg a válaszodat az alábbi helyen!

Igen, mert _____

_____

Nem, mert _____

_____

Nu se completează de către elev
COD

12.	

FELICITĂRI, AI AJUNS LA SFÂRŞITUL TESTULUI!

MULŢUMIM PENTRU PARTICIPARE!